Использование атласов в условиях итоговой аттестации

- Методические рекомендации по подготовке и проведению единого государственного экзамена в пунктах проведения экзаменов в 2018 году
- Методические рекомендации по подготовке и проведению государственной итоговой аттестации по образовательным программам основного общего образования в 2018 году

Приложение 1 к письму
Рособрнадзора от 27.12.2017 № 10-870

Методические рекомендации
по подготовке и проведению единого государственного
экзамена в пунктах проведения экзаменов в 2018 году

Использовать атласы на экзамене нельзя.
В комплекте материалов
2 ч/б карты без минутной рамки:
1) политическая мира;
2) политико-адм. России.
Линии град. сети: Россия – через 10°, мир – через 20°

резервный электронный носитель, полученный у руководителя ППЭ.

После проведения организаторами инструктажа участники ЕГЭ приступают к выполнению экзаменационной работы.

Участники ЕГЭ должны соблюдать Порядок и следовать указаниям организаторов в аудитории, а организаторы обеспечивать порядок проведения экзамена в аудитории и осуществлять контроль за порядком проведения экзамена в аудитории и вне аудитории.

Во время экзамена на рабочем столе участника ЕГЭ, помимо ЭМ, могут находиться:

гелевая, капиллярная ручка с чернилами черного цвета;

документ, удостоверяющий личность;

лекарства и питание (при необходимости);

средства обучения и воспитания (по математике - линейка; по физике – линейка и непрограммируемый калькулятор; по химии – непрограммируемый калькулятор; по географии – линейка, транспортир, непрограммируемый калькулятор);

специальные технические средства (для участников ЕГЭ с ОВЗ, детей-инвалидов, инвалидов);

черновики со штампом образовательной организаци
расположен ППЭ (в случае проведения ЕГЭ по иностран
«Говорение») черновики не выдаются).

Главное – знания и операционные умения

Во время экзамена участники ЕГЭ имеют право вы
и перемещаться по ППЭ только в сопровождении одного из организаторов вне аудитории. При выходе из аудитории участники ЕГЭ оставляют документ, удостоверяющий личность, ЭМ, письменные принадлежности и черновики со штампом образовательной организации, на базе которой организован ППЭ, на рабочем столе, а организатор проверяет комплектность оставленных ЭМ.

Каждый выход участника ЕГЭ из аудитории фиксируется организаторами в ведомости учёта времени отсутствия участников ГИА в аудитории (форма ППЭ-12-04-МАШ). Если один и тот же участник ЕГЭ выходит несколько раз, то каждый его выход фиксируется в ведомости в новой строке. При нехватке места на одном листе записи продолжаются на следующем листе (выдаётся в Штабе ППЭ по схеме, установленной руководителем ППЭ).

Приложение 1. Особенности подготовки аудиторий (включая дополнительные материалы и оборудование) к ОГЭ по учебным предметам

Учебный предмет ОГЭ	Средства обучения и воспитания	Условия проведения экзамена в аудиториях и требования к специалистам
География	Обучающиеся должны быть обеспечены линейками, непрограммируемыми калькуляторами и географическими атласами для 7, 8 и 9 классов (любого издательства).	На экзамене в аудиторию не допускаются специалисты по географии. Проверку экзаменационных работ (заданий с развернутыми ответами) осуществляют эксперты, прошедшие специальную подготовку по проверке и оцениванию заданий с развернутыми ответами.
		На экзамене в аудиторию не допускают и обществознанию. Проверку экзаменационных работ (зада осуществляют эксперты, прошедшие по проверке и оцениванию заданий с разве
		На экзамене в аудиторию не допускаются сп Проверку экзаменационных работ (заданий с развернутым ответом) осуществляют эксперты, прошедшие специальную подготовку по проверке и оцениванию заданий с развернутыми ответами.
		Экзамен по химии проводится в кабинетах, отвечающих требованиям безопасного труда при выполнении экспериментальных заданий экзаменационной работы. К обеспечению проведения лабораторных работ привлекается соответствующий специалист, владеющий определенными умениями и навыками проведения лабораторных работ по химии (например – лаборант). Не допускается привлекать к проведению лабораторных работ

- Можно использовать свои атласы без каких-либо пометок.
- На обложке должен быть чётко указан класс.
- Сборники атласов использовать нельзя

Главное – умение работать с картой и атласом как сборником карт: 19 заданий из 30 (не считая заданий на работу с планом)

Приложение 12 к письму
Рособрнадзора от 27.12.2017 № 10-870

Методические рекомендации
по подготовке и проведению государственной итоговой аттестации по образовательным программам основного общего образования в 2018 году

Инструкция по закупке пособий за счет средств физических лиц с образцами заполнения документов

panasenkova@lbz.ru

Панасенкова Ольга Алексеевна

///C:/Users/HP/Desktop/ГГ_ОГЭ_ДЕМО_2018.pdf

Демонстрационный вариант 2018 года

Инструкция по выполнению работы

Экзаменационная работа состоит из 30 заданий. На выполнение работы по географии отводится 2 часа (120 минут).

Ответы к заданиям 1–8, 10–13, 21, 22, 27–29 записываются в виде одной цифры, которая соответствует номеру правильного ответа. Эту цифру запишите в поле ответа в тексте работы, а затем перенесите в бланк ответов № 1.

Ответы к заданиям 9, 14, 16–19, 24–26, 30 записываются в виде числа, слова (словосочетания) или последовательности цифр. Ответ запишите в поле ответа в тексте работы, а затем перенесите в бланк ответов № 1. Каждый символ пишите в отдельной клеточке в соответствии с приведёнными в бланке образцами. При переносе ответа в виде последовательности цифр на бланк (задания 17, 24, 25, 26) следует указать только эту последовательность, без запятых, пробелов и прочих символов. Если ответ на задание имеет единицу измерения, то при переносе ответа на бланк следует записать только полученное число. Единицы измерения в ответе указывать не надо.

Работа содержит 3 задания (15, 20 и 23), на которые следует дать полный развёрнутый ответ. Ответы на эти задания записываются на бланке ответов № 2. Запишите сначала номер задания, а затем ответ на него.

При выполнении работы разрешается использовать географические атласы для 7, 8 и 9 классов, линейки и непрограммируемые калькуляторы.

При выполнении заданий можно пользоваться черновиком. **Записи в черновике, а также в тексте контрольных измерительных материалов не учитываются при оценивании работы.**

Баллы, полученные Вами за выполненные задания, суммируются. Постарайтесь выполнить как можно больше заданий и набрать наибольшее количество баллов.

Желаем успеха!



Линия универсальных атласов и контурных карт по географии издательств «Просвещение» и «БИНОМ. Лаборатория знаний»

Очень важно знать номенклатуру!

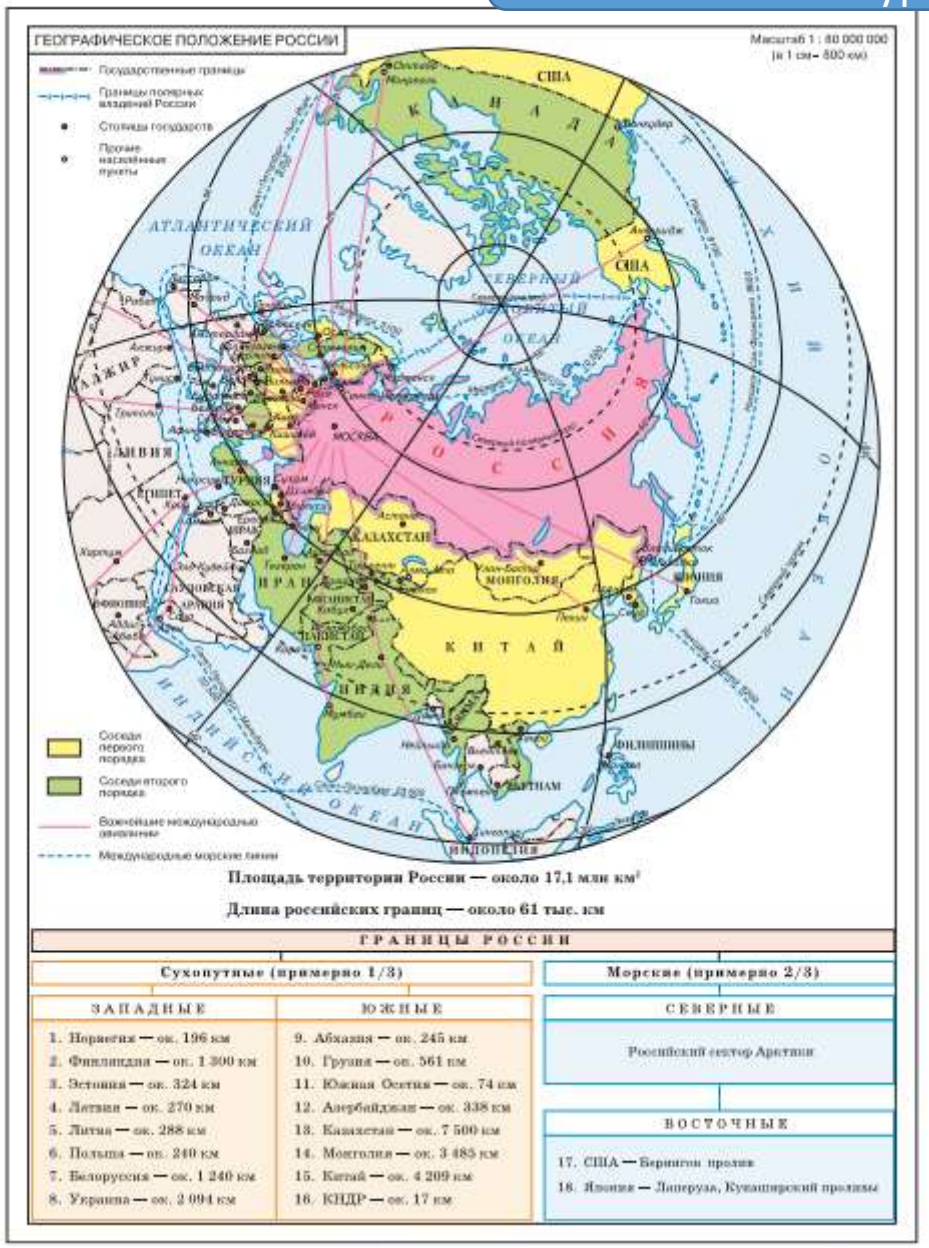

1 На территории какой из перечисленных стран находится самая большая по площади низменность на Земле?

1) США
2) Китай
3) Бразилия
4) Канада

Ответ: ☐

7 класс.
2 карты:
Физическая мира
Политическая мира

2 С какой из перечисленных стран Россия имеет как сухопутную, так и морскую границу?

1) Эстония
2) Белоруссия
3) Монголия
4) Япония

Ответ: ☐

8, 9 классы.
Географическое положение России

3 Для какой из перечисленных территорий России, расположенных в умеренном климатическом поясе, характерен резко континентальный климат?

1) Забайкалье
2) Кольский полуостров
3) Приморье
4) полуостров Камчатка

Ответ: ☐

8 класс.
3 карты:
Физическая России
Политико-административная России
Климатическая России

4 Снежные лавины – одно из наиболее грозных и опасных природных явлений. В каком из перечисленных регионов России снежные лавины представляют наибольшую опасность?

1) Калининградская область
2) Республика Северная Осетия – Алания
3) Чувашская Республика
4) Архангельская область

Ответ: ☐

8, 9 классы.
2 карты:
Физическая России
Политико-административная России

Причинно-следственная связь: горы - лавины

file:///C:/Users/HP/Desktop/ГГ_ОГЭ_ДЕМО_2018.pdf

5 В каком из перечисленных регионов России угледобывающая промышленность является одной из основных отраслей хозяйства?

1) Краснодарский край
2) Кемеровская область
3) Астраханская область
4) Республика Карелия

Ответ:

9 класс.
2 карты:
Политико-административная России
Топливная промышленность

6 Учёные-биологи должны исследовать места обитания популяций овцебыков, белых медведей, некоторых видов птиц. Какой из перечисленных заповедников им следует посетить для проведения исследовательской работы?

!

1) Остров Врангеля
2) Магаданский
3) Командорский
4) Печоро-Илычский

Ответ:

8 класс.
2 карты:
Природные зоны
Особо охраняемые территории

7 В каком из перечисленных регионов России средняя плотность населения наибольшая?

1) Камчатский край
2) Ростовская область
3) Мурманская область
4) Республика Карелия

Ответ:

8, 9 классы.
2 карты:
Политико-административная России
Размещение населения

Задания 8, 9 выполняются с использованием приведённых ниже статистических данных.

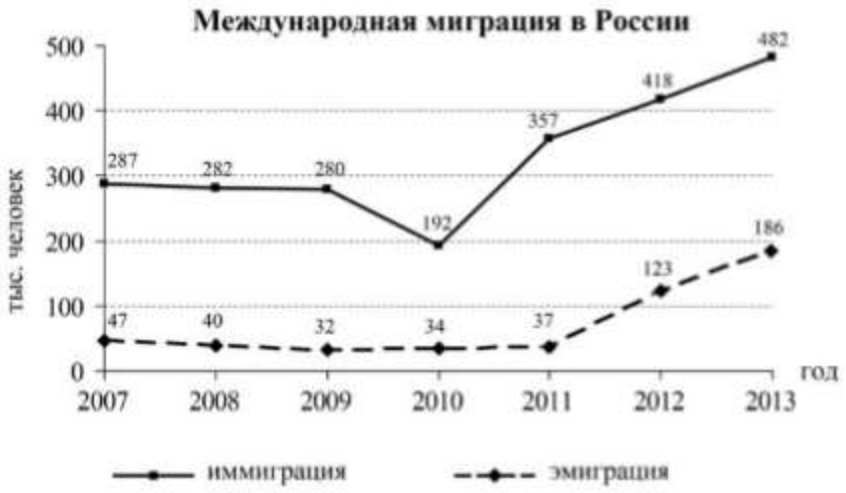

8 В каком году из перечисленных на постоянное место жительства в Россию из других стран въехало **наименьшее** число людей?

1) 2009 г. 2) 2010 г. 3) 2011 г. 4) 2012 г.

Ответ:

9 Определите величину миграционного прироста населения России в 2013 г. Ответ запишите в виде числа.

Ответ: _____ тыс. человек.

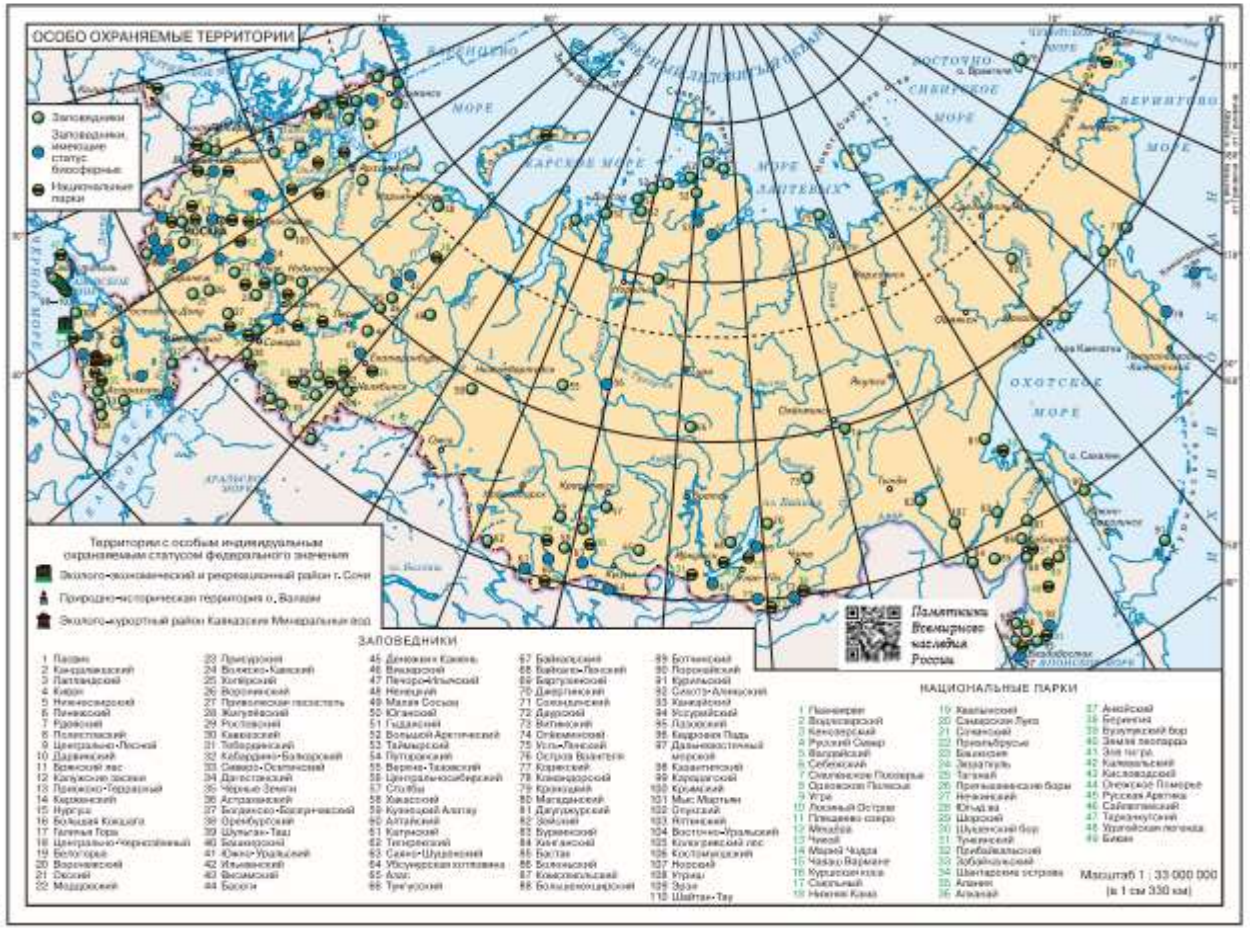
ОСОБО ОХРАНЯЕМЫЕ ТЕРРИТОРИИ
Заповедники
Заповедники, имеющие статус биосферные
Национальные парки
Территории с особым индивидуальным охраняемым статусом федерального значения
Эколого-экономический и рекреационный район г. Сочи
Природно-историческая территория о. Валаам
Эколого-курортный район Кавказские Минеральные воды
Памятники Всемирного наследия России
ЗАПОВЕДНИКИ
НАЦИОНАЛЬНЫЕ ПАРКИ
Масштаб 1 : 33 000 000
(в 1 см 330 км)

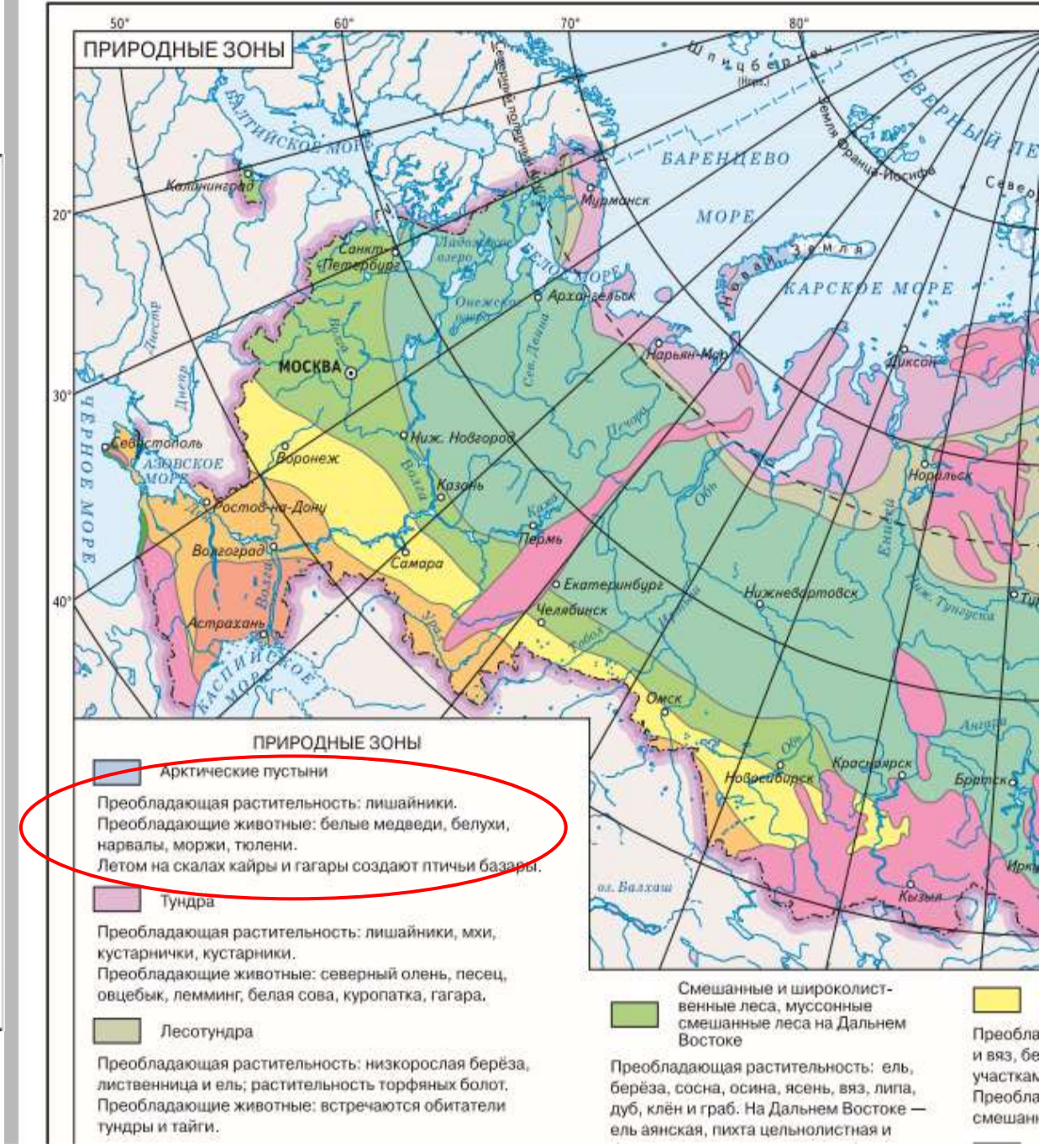
ПРИРОДНЫЕ ЗОНЫ
50°
60°
70°
80°
20°
30°
40°
БАЛТИЙСКОЕ МОРЕ
Калининград
Санкт-Петербург
Мурманск
БАРЕНЦЕВО МОРЕ
Шпицберген
Земля Франца-Иосифа
СЕВЕРНЫЙ ЛЕДОВИТЫЙ
Новая Земля
КАРСКОЕ МОРЕ
БЕЛОЕ МОРЕ
Онежское озеро
Ладожское озеро
Архангельск
Нарьян-Мар
Диксон
Норильск
МОСКВА
Нижн. Новгород
Казань
Пермь
Самара
Воронеж
Ростов-на-Дону
Волгоград
Астрахань
Севастополь
АЗОВСКОЕ МОРЕ
ЧЕРНОЕ МОРЕ
КАСПИЙСКОЕ МОРЕ
Екатеринбург
Челябинск
Нижневартовск
Омск
Новосибирск
Красноярск
Братск
Кызыл
о. Валаам
ПРИРОДНЫЕ ЗОНЫ
Арктические пустыни
Преобладающая растительность: лишайники.
Преобладающие животные: белые медведи, белухи, нарвалы, моржи, тюлени.
Летом на скалах кайры и гагары создают птичьи базары.
Тундра
Преобладающая растительность: лишайники, мхи, кустарнички, кустарники.
Преобладающие животные: северный олень, песец, овцебык, лемминг, белая сова, куропатка, гагара.
Лесотундра
Преобладающая растительность: низкорослая берёза, лиственница и ель; растительность торфяных болот.
Преобладающие животные: встречаются обитатели тундры и тайги.
Смешанные и широколиственные леса, муссонные смешанные леса на Дальнем Востоке
Преобладающая растительность: ель, берёза, сосна, осина, ясень, вяз, липа, дуб, клён и граб. На Дальнем Востоке — ель аянская, пихта цельнолистная и

file:///C:/Users/HP/Desktop/ГГ_ОГЭ_ДЕМО_2018.pdf

© 2018 Федеральная служба по надзору в сфере образования и науки Российской Федерации

14 Определите, какая горная вершина имеет географические координаты 46° с.ш. 7° в.д.

Ответ: _____.

7 класс.
Физическая карта мира
с минутной рамкой (через 5°)

Задание 15 выполняется с использованием приведённого ниже текста.

В конце февраля 2010 г. в Тихом океане на глубине 55 километров у побережья Чили, в 115 километрах к северу от города Консепсьон, произошло сильное землетрясение магнитудой 8,8. В результате землетрясения и последовавшего за ним цунами погибло более 500 человек. Примерно год спустя, 1 марта 2011 г., на севере Чили зафиксировано землетрясение магнитудой 5,2. Эпицентр землетрясения находился в 116 километрах восточнее города Икике. Его очаг находился на глубине 99 километров. Сведений о жертвах и разрушениях не поступало.

15 Почему в Чили часто происходят землетрясения?
Ответ запишите на бланке ответов №2, сначала указав номер задания.

!

Причинно-следственная связь: строение земной коры – землетрясения

7 класс.
2 карты:
Политическая мира
Строение земной коры

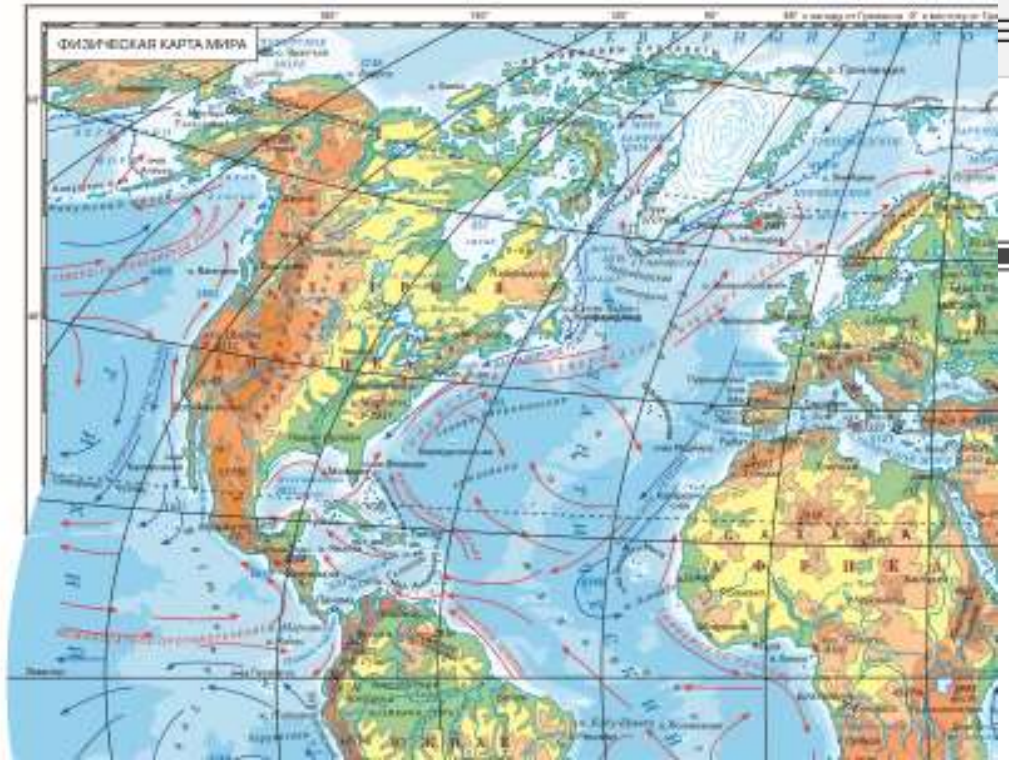

17 Расположите перечисленные города в порядке **увеличения** в них численности населения.
Запишите в таблицу получившуюся последовательность цифр.

!

1) Липецк
2) Новосибирск
3) Псков

Ответ: | | | |

8, 9 классы.
Карта «Размещение населения»

file:///E:/Атласы%20география/Атлас_7/7_class_01-48.pdf

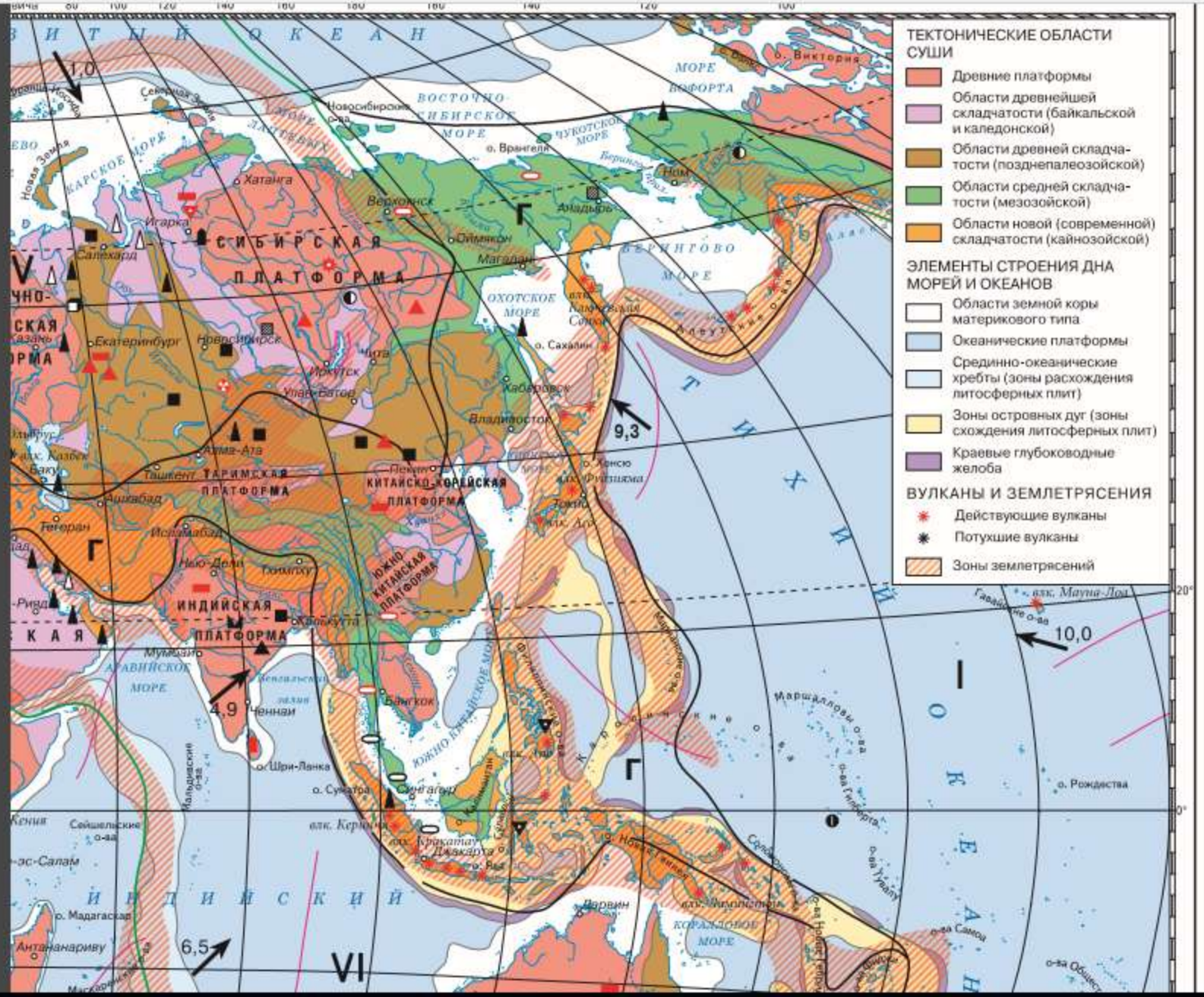

file:///E:/Атласы%20география/Атлас_8/8_class_01-40.pdf

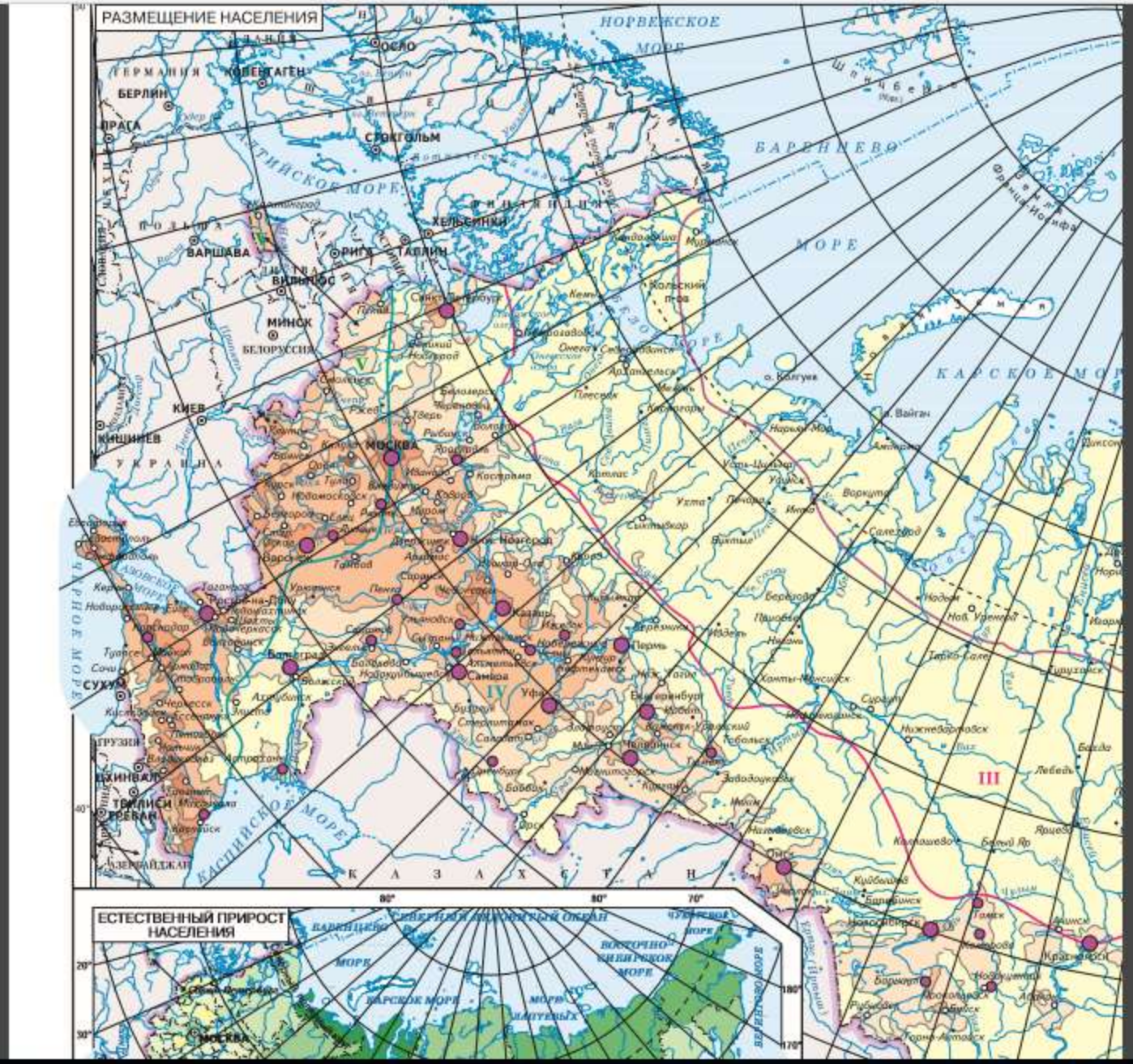

ГГ_ОГЭ_ДЕМО_2018.pdf
file:///C:/Users/HP/Desktop/ГГ_ОГЭ_ДЕМО_2018.pdf

Задания 22, 23 выполняются с использованием приведённого ниже текста.

Сокольский деревообрабатывающий комбинат (г. Сокол, Вологодская область) первым в стране освоил технологию производства клееного бруса. Проектная мощность завода – 100 000 м^3 клееной древесины в год. На сегодняшний день это одно из самых крупных предприятий в России по производству клееного бруса и балок (до 12 м).

22 Карты какого из перечисленных географических районов России необходимо выбрать, чтобы определить местоположение Вологодской области?

1) Европейский Север
2) Восточная Сибирь
3) Западная Сибирь
4) Урал

Ответ: ☐

9 класс.

23 Какая особенность природно-ресурсной базы Вологодской области способствует бесперебойному снабжению предприятия по производству клееного бруса и балок необходимым сырьём?
Ответ запишите на бланке ответов №2, указав сначала номер задания.

!

Причинно-следственная связь: ресурсы – отрасли хозяйства

9 класс.
2 карты:
Европейский север и Северо-Запад
Лесная промышленность

24 Расположите регионы России в той последовательности, в которой их жители встречают Новый год. Запишите в таблицу получившуюся последовательность цифр.

!

1) Республика Карелия
2) Свердловская область
3) Забайкальский край

Ответ: ☐☐☐

8 класс.
Карта «Часовые зоны»

Причинно-следственная связь: долгота – время

25 Туристические фирмы различных регионов России разработали слоганы (рекламные лозунги) для привлечения туристов в свои регионы. Установите соответствие между слоганами и регионами: к каждому элементу первого столбца подберите соответствующий элемент из второго столбца.

!

СЛОГАНЫ	РЕГИОНЫ
А) Добро пожаловать на побережье Телецкого озера – горной жемчужины с неповторимой красотой!	1) Республика Карелия
Б) Добро пожаловать в национальный парк Валдайский – «жемчужину» средней полосы России! Полюбуйтесь красотой озера Ильмень!	2) Краснодарский край
	3) Республика Алтай
	4) Новгородская область

Запишите в таблицу выбранные цифры под соответствующими буквами.

Ответ:

А	Б

8 класс.
3 карты:
Политико-административная России
Физическая России или Западная Сибирь
Особо охраняемые территории

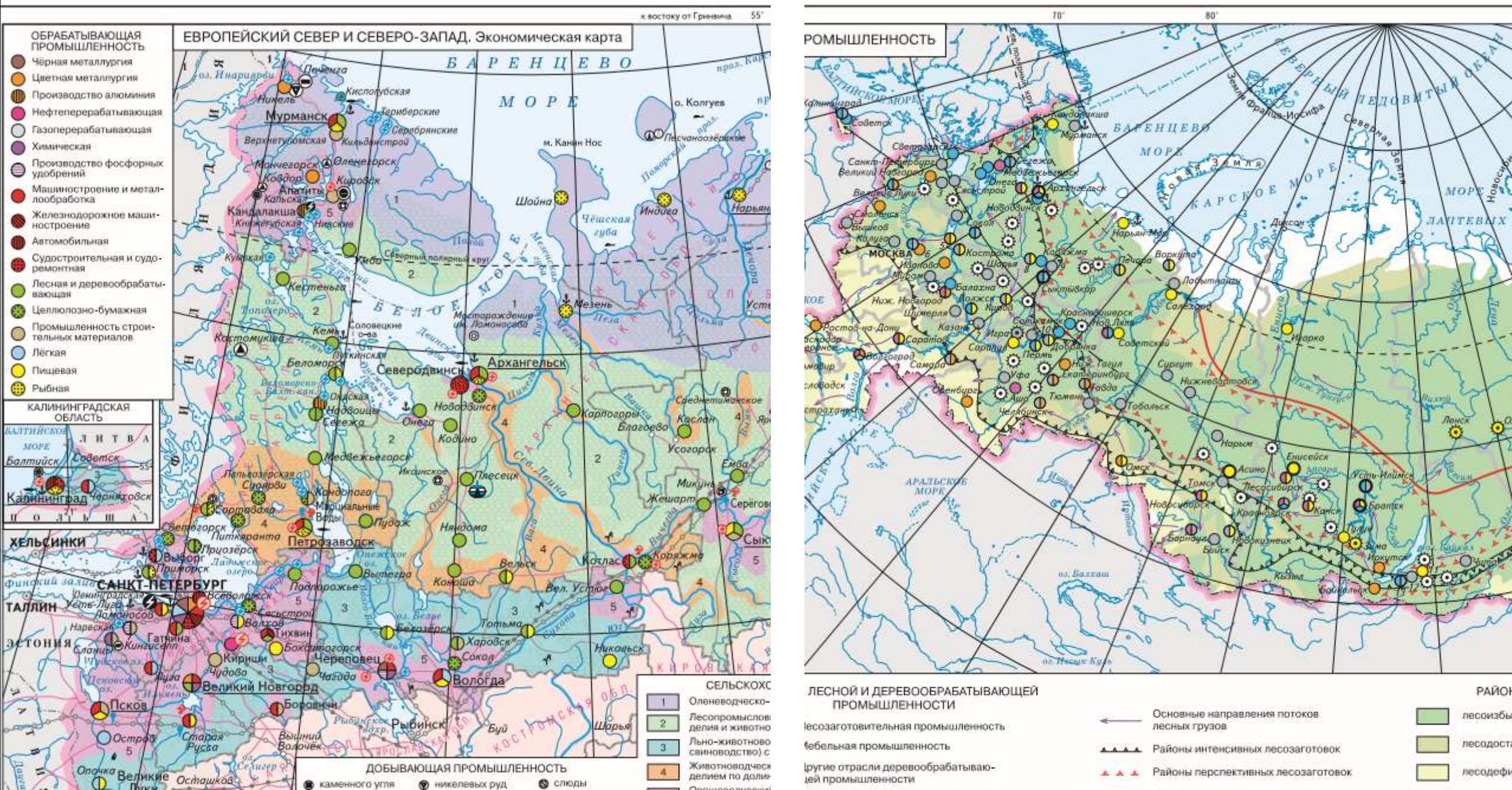
ЕВРОПЕЙСКИЙ СЕВЕР И СЕВЕРО-ЗАПАД. Экономическая карта
ОБРАБАТЫВАЮЩАЯ ПРОМЫШЛЕННОСТЬ
Чёрная металлургия
Цветная металлургия
Производство алюминия
Нефтеперерабатывающая
Газоперерабатывающая
Химическая
Производство фосфорных удобрений
Машиностроение и металлообработка
Железнодорожное машиностроение
Автомобильная
Судостроительная и судоремонтная
Лесная и деревообрабатывающая
Целлюлозно-бумажная
Промышленность строительных материалов
Лёгкая
Пищевая
Рыбная
КАЛИНИНГРАДСКАЯ ОБЛАСТЬ
БАРЕНЦЕВО МОРЕ
БЕЛОЕ МОРЕ
Мурманск
Архангельск
Северодвинск
Петрозаводск
САНКТ-ПЕТЕРБУРГ
ХЕЛЬСИНКИ
ТАЛЛИН
Великий Новгород
Псков
Вологда
Череповец
Рыбинск
Кострома
Иваново
Ярославль
Тверь
Смоленск
Калининград
Советск
Балтийск
Черняховск
ДОБЫВАЮЩАЯ ПРОМЫШЛЕННОСТЬ
каменного угля
никелевых руд
слюды
СЕЛЬСКОХОЗ
Оленеводческо-
Лесопромыслов
делия и животно
Льно-животново
свиноводство) с
Животноводчес
делим по доли
ЛЕСНОЙ И ДЕРЕВООБРАБАТЫВАЮЩЕЙ ПРОМЫШЛЕННОСТИ
Лесозаготовительная промышленность
Мебельная промышленность
Другие отрасли деревообрабатывающей промышленности
Основные направления потоков лесных грузов
Районы интенсивных лесозаготовок
Районы перспективных лесозаготовок
РАЙОН
лесоизбы
лесодоста
лесодефи

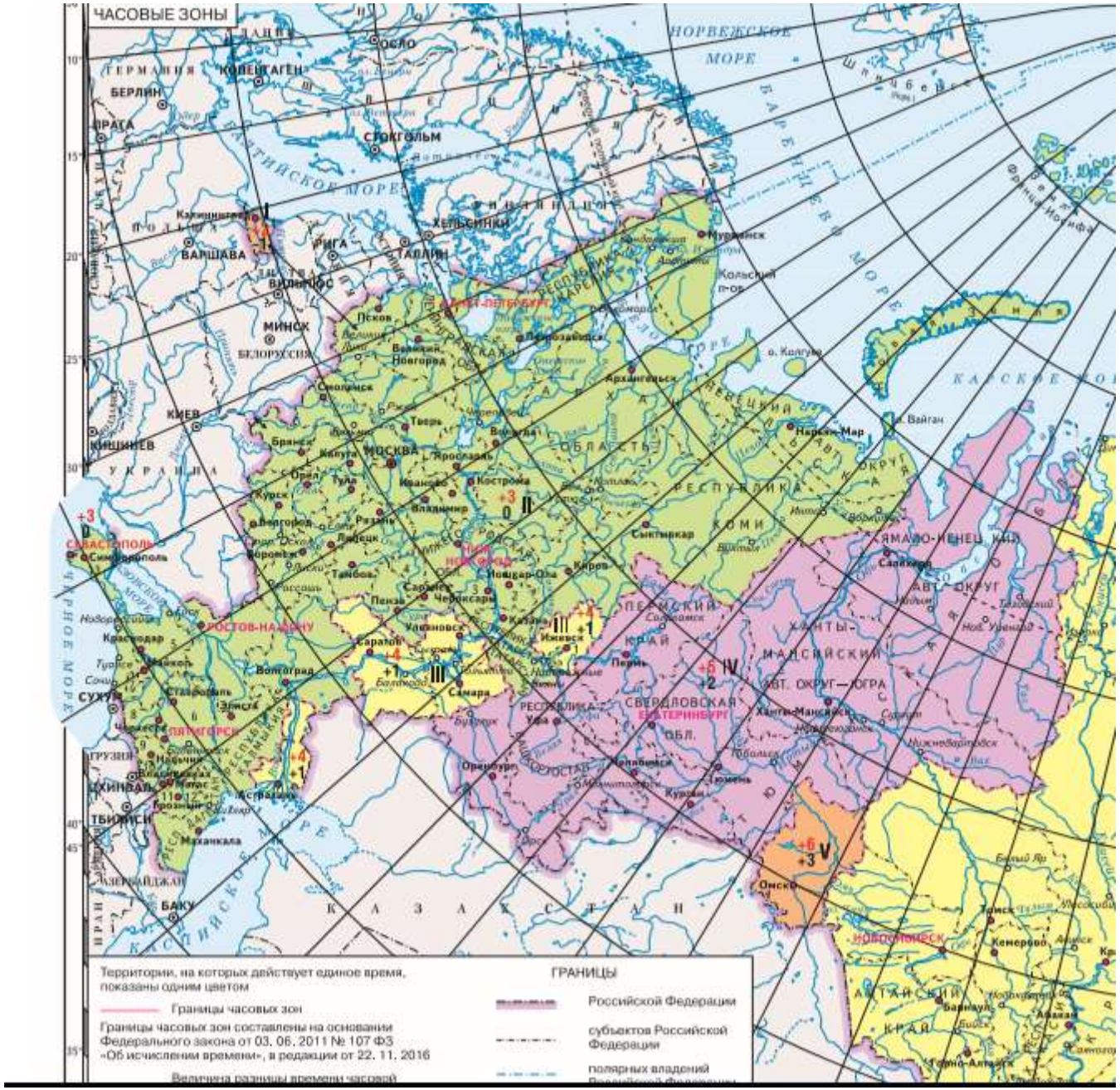

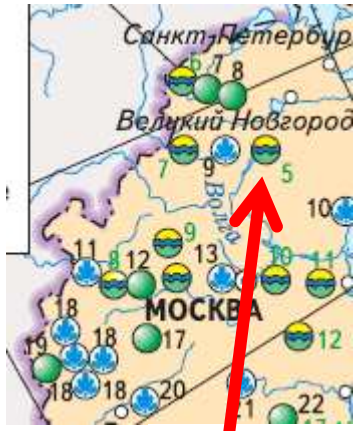

НАЦИОНАЛЬНЫЕ ПАРКИ

1 Паанаярви
2 Водлозерский
3 Кенозерский
4 Русский Север
5 Валдайский
6 Себежский
7 Смоленское Поозерье
19 Хвалынский
20 Самарская Лука
21 Сочинский
22 Приэльбрусье
23 Башкирия
24 Зюраткуль
25 Таганай

file:///C:/Users/HP/Desktop/ГГ_ОГЭ_ДЕМО_2018.pdf

26 Во время экскурсии учащиеся сделали схематическую зарисовку залегания горных пород на обрыве в карьере.

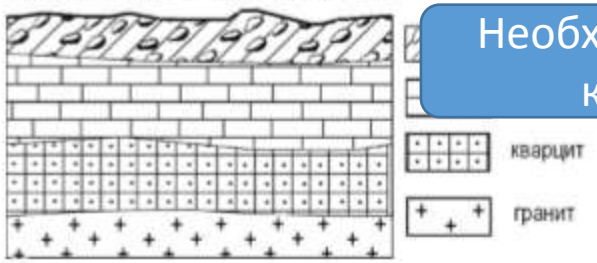

Необходимо уметь читать климатограмму

Расположите показанные на рисунке слои горных пород в порядке **увеличения** их возраста (от самого молодого до самого древнего).
Запишите в таблицу получившуюся последовательность цифр.

1) известняк
2) суглинок с валунами
3) кварцит

Ответ: ☐☐☐

27 Проанализируйте климатограмму и определите, какой буквой на карте обозначен пункт, характеристики климата которого отражены в климатограмме.

7 класс. Климатическая мира

!

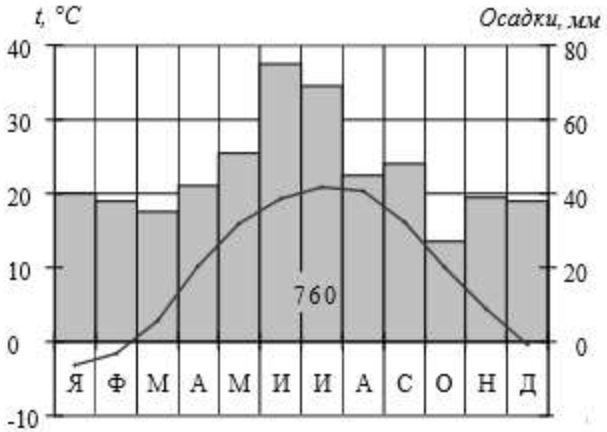

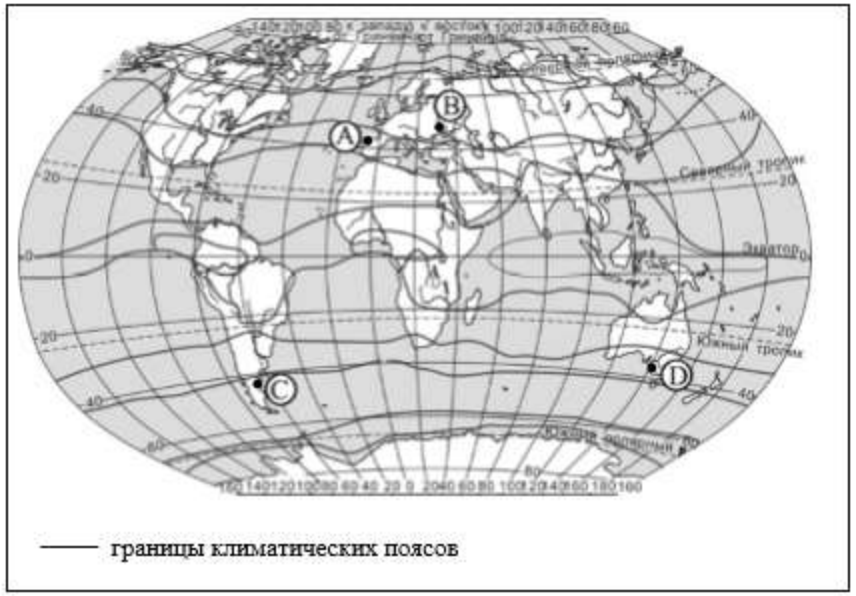

1) A 2) B 3) C 4) D

Ответ: ☐

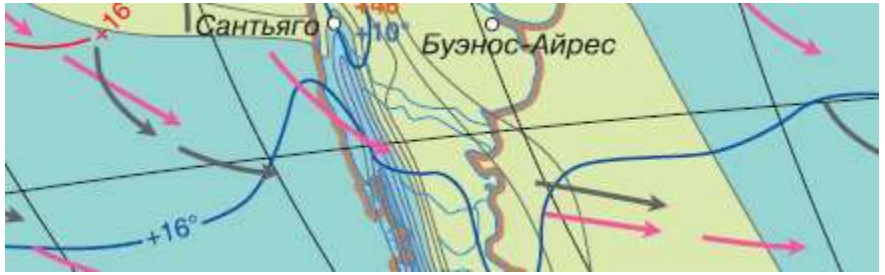

C

A, B

D

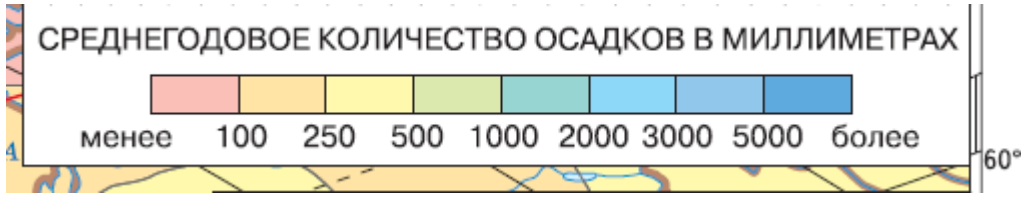

Климатическая карта мира

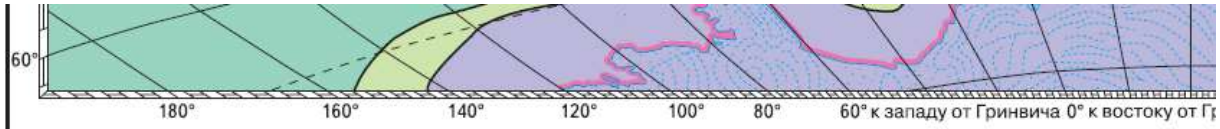

ЭКВАТОРИАЛЬНЫЙ ПОЯС

1 Круглый год преобладают экваториальные воздушные массы. Сезонные колебания температуры и влажности воздуха малы

СУБЭКВАТОРИАЛЬНЫЕ ПОЯСА

2 Летом – экваториальные, зимой – тропические воздушные массы. Зима немного прохладнее лета, но отличается сухостью. На океанах возникают тропические циклоны

ТРОПИЧЕСКИЕ ПОЯСА

3 Хорошо заметны сезонные изменения температуры воздуха, особенно на материках. Преобладают пассаты

Области топического климата

3а пустынного

3б влажного

СУБТРОПИЧЕСКИЕ ПОЯСА

4 Летом — тропические, зимой — умеренные воздушные массы. Значительные сезонные различия температуры и осадков. Возможны снегопады

Области субтропического климата

4а континентального

4б средиземноморского

4в муссонного

4г с равномерным увлажнением

УМЕРЕННЫЕ ПОЯСА

5 значительные сезонные различия температуры, на материках зимой, как правило — снежный покров. Характерен западный перенос воздушных масс

Климатические пояса и области мира

file:///C:/Users/HP/Desktop/ГГ_ОГЭ_ДЕМО_2018.pdf

Задания 28, 29 выполняются с использованием приведённого ниже текста.

Школьники из нескольких населённых пунктов России обменялись данными многолетних метеонаблюдений, полученными на местных метеостанциях. Собранные ими данные представлены в следующей таблице.

Пункт наблюдения	Географические координаты пункта наблюдения	Высота над уровнем моря, м	Средняя температура воздуха, °С		Среднегодовое количество атмосферных осадков, мм
			июль	январь	
Сортавала	61° с.ш. 30° в.д.	17	+16,4	–9,8	570
Вологда	59° с.ш. 40° в.д.	125	+17,0	–11,9	568
Балахна	57° с.ш. 44° в.д.	63	+19,0	–11,6	542
Уфа	54° с.ш. 56° в.д.	104	+19,5	–15,0	569

28 Учащиеся проанализировали собранные данные в целях выявления зависимости между особенностями климата и географическим положением пункта. У всех учащихся выводы получились разные. Кто из учащихся сделал верный вывод на основе представленных данных?

1) Алина: «Чем дальше на юго-восток, тем больше среднегодовое количество атмосферных осадков».
2) Сергей: «Чем дальше на юго-восток, тем больше среднегодовая амплитуда температуры воздуха».
3) Георгий: «Чем севернее, тем ниже температуры воздуха в январе».
4) Тамара: «Чем выше над уровнем моря расположен пункт, тем прохладней там в июле».

Ответ: ☐

29 В каком из перечисленных населённых пунктов 22 июня в полдень по местному солнечному времени угол падения солнечных лучей будет **наименьшим**?

1) Сортавала
2) Вологда
3) Балахна
4) Уфа

Ответ: ☐

9 класс.
Региональные карты – найти
8 класс.
Региональные карты - определить широту

Причинно-следственная связь: широта – высота солнца над горизонтом

30 Определите страну по её краткому описанию.

Эта высокоразвитая страна занимает территорию четырёх крупных и нескольких тысяч мелких островов. Особенностью природы является преобладание горного рельефа, высокая сейсмичность, активный вулканизм. Страна бедна полезными ископаемыми. Из-за вытянутости в меридиональном направлении климатические условия разнообразны. Более 60% территории, главным образом горы, покрыто лесами: смешанными, широколиственными и переменно-влажными (в том числе муссонными). Средняя плотность населения превышает 100 человек на 1 км^2.

Ответ: _____.

7 класс.
Карты:
Политическая мира
Физическая мира
Строение земной коры
Природные зоны мира
Плотность населения и народы мира

Найти

Точно определить широту по картам:
Восточно-Европейская равнина
Урал
или картам географических районов (все карты с минутной рамкой)

Инструкция по закупке пособий за счет средств физических лиц с образцами заполнения документов

panasenkova@lbz.ru

Панасенкова Ольга Алексеевна